Currículo em Ação

MATERIAL DIGITAL

1º ANO

2025_AI_V1



AULA 32

MEDINDO COMPRIMENTO, CAPACIDADE E MASSA

MATEMÁTICA

1º BIMESTRE

ENSINO FUNDAMENTAL: ANOS INICIAIS

Secretaria da Educação
SÃO PAULO
GOVERNO DO ESTADO

CONTEÚDO

- COMPARAÇÃO DE MEDIDAS.

OBJETIVOS DE APRENDIZAGEM

- UTILIZAR TERMOS COMO: MAIS ALTO E MAIS BAIXO, MAIS PESADO E MAIS LEVE, MAIS COMPRIDO E MAIS CURTO, MAIS GROSSO, MAIS FINO E MAIS LARGO, CABE MAIS E CABE MENOS, PARA COMPARAR MEDIDAS DE COMPRIMENTO, CAPACIDADE E MASSA.

2025_AI_V1

2025_AI_V1

CONVERSE COM A TURMA

OBSERVE OS ANIMAIS AO LADO.

- QUAL DELES É O MAIOR?
- QUAL DELES É O MAIS PESADO?
- QUAL É O MAIS LEVE?
- QUAL DELES TEM O NARIZ MAIS COMPRIDO?



VIVENCIANDO

TODOS JUNTOS

2025_AI_V1

EXPLORANDO OS OBJETOS DA SALA DE AULA

OBSERVE OS OBJETOS APRESENTADOS, FAÇA COMPARAÇÕES E COMPARTILHE COM A TURMA SUAS DESCOBERTAS.



PRATICANDO

1. SEU JOÃO TEM UM MERCADO. ELE PRECISA ESCOLHER CAIXAS PARA ORGANIZAR SUAS FRUTAS. EM QUAL DESSAS CAIXAS CABEM MAIS LARANJAS? FAÇA UM **X**.



CONTINUA...

2025_AI_V1

PRATICANDO

CORREÇÃO

2025_AI_V1

1. SEU JOÃO TEM UM MERCADO. ELE PRECISA ESCOLHER CAIXAS PARA ORGANIZAR SUAS FRUTAS. EM QUAL DESSAS CAIXAS CABEM MAIS LARANJAS? FAÇA UM **X**.



X

CONTINUA...

PRATICANDO

- ELE TAMBÉM VENDE VASOS PARA FLORES. QUAL DOS VASOS É O MAIS ESTREITO? FAÇA UM CÍRCULO.



CONTINUA...

2025_AI_V1

PRATICANDO

CORREÇÃO

2025_AI_V1

- ELE TAMBÉM VENDE VASOS PARA FLORES. QUAL DOS VASOS É O MAIS ESTREITO? FAÇA UM CÍRCULO.



CONTINUA...

2025_AI_V1

2. OBSERVE E COMPARE OS PRÉDIOS ABAIXO.

- PINTE DE VERDE O MAIS ALTO.
- FAÇA UM **X** NO MAIS BAIXO.
- CIRCULE O QUE TEM MAIS JANELAS.



CONTINUA...

PRATICANDO

CORREÇÃO

2. OBSERVE E COMPARE OS PRÉDIOS ABAIXO.

- PINTE DE VERDE O MAIS ALTO.
- FAÇA UM **X** NO MAIS BAIXO.
- CIRCULE O QUE TEM MAIS JANELAS.

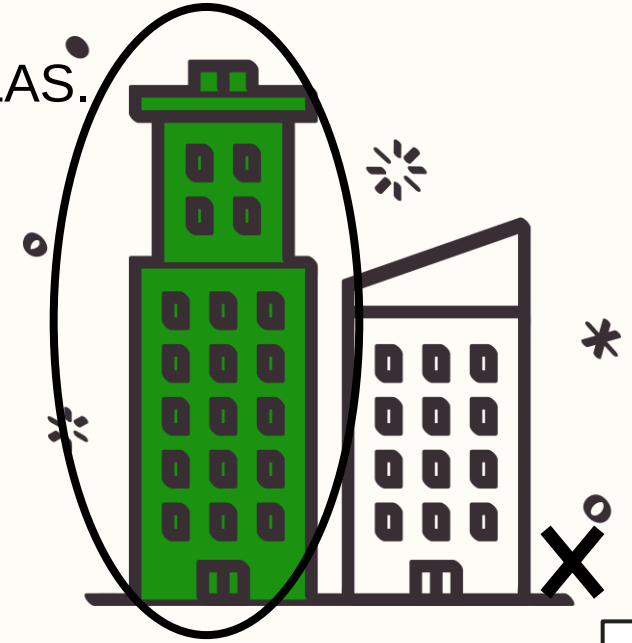

2025_AI_V1

2025_AI_V1

3. EM CADA IMAGEM, FAÇA O QUE SE PEDE.

- FAÇA UM X NA GIRAFA MAIS BAIXA.



- RISQUE O LÁPIS MAIS GROSSO.

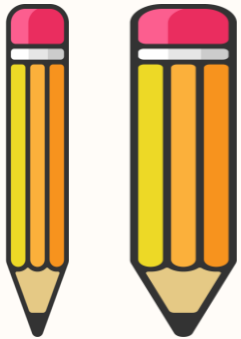

- FAÇA UM CÍRCULO NO ANIMAL MAIS LEVE.





CONTINUA...

PRATICANDO

CORREÇÃO

2025_AI_V1

3. EM CADA IMAGEM, FAÇA O QUE SE PEDE.

- FAÇA UM X NA GIRAFA MAIS BAIXA.



- RISQUE O LÁPIS MAIS GROSSO.



- FAÇA UM CÍRCULO NO ANIMAL MAIS LEVE.





CONTINUA...

PRATICANDO

4. OBSERVE O MAPA ABAIXO.

- PARA IR DA ESCOLA AO PARQUE, HÁ DOIS CAMINHOS SINALIZADOS: O CAMINHO AZUL E O CAMINHO AMARELO. QUAL DOS CAMINHOS É O MAIS LONGO? PINTE SUA RESPOSTA.



CAMINHO AZUL

CAMINHO AMARELO

CONTINUA...

2025_AI_V1

PRATICANDO

CORREÇÃO

4. OBSERVE O MAPA ABAIXO.

- PARA IR DA ESCOLA AO PARQUE, HÁ DOIS CAMINHOS SINALIZADOS: O CAMINHO AZUL E O CAMINHO AMARELO. QUAL DOS CAMINHOS É O MAIS LONGO? PINTE SUA RESPOSTA.



CAMINHO AZUL

CAMINHO AMARELO

CONTINUA...

2025_AI_V1

PRATICANDO



2025_AI_V1

5. DESENHE:

A. DUAS CASAS. UMA MAIS ALTA E OUTRA MAIS BAIXA.

B. DOIS CARROS. UM COMPRIDO E OUTRO MAIS CURTO.

PRATICANDO

CORREÇÃO



2025_AI_V1

5. DESENHE:

A. DUAS CASAS. UMA MAIS ALTA E OUTRA MAIS BAIXA.

RESPOSTA PESSOAL.

B. DOIS CARROS. UM COMPRIDO E OUTRO MAIS CURTO.

RESPOSTA PESSOAL.

O QUE APRENDEMOS HOJE?



- UTILIZAMOS TERMOS COMO: MAIS ALTO E MAIS BAIXO, MAIS PESADO E MAIS LEVE, MAIS COMPRIDO E MAIS CURTO, MAIS GROSSO, MAIS FINO E MAIS LARGO, CABE MAIS E CABE MENOS, PARA COMPARAR MEDIDAS DE COMPRIMENTO, CAPACIDADE E MASSA.

2025_AI_V1

REFERÊNCIAS

LEMOV, D. *Aula Nota 10 3.0*: 63 técnicas para melhorar a gestão da sala de aula. Porto Alegre: Penso, 2023.

SÃO PAULO (Estado). Secretaria da Educação. *Currículo Paulista*. São Paulo, 2019.

REFERÊNCIAS

Lista de imagens e vídeos

Imagem de capa: SEDUC

Slides 3, 4, 5, 6, 7, 8, 9, 10, 11, 12, 13 e 14 – © Getty Imagens

Secretaria da Educação

SÃO PAULO
GOVERNO DO ESTADO

2025_AI_V1